L'heure

Maths

1

Ecris l'heure qu'indique chaque horloge.

2

Dessine les aiguilles de ces montres :
En bleu l'aiguille des minutes, en rouge celle des heures.

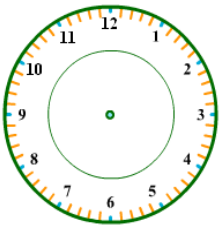

6 h moins 20

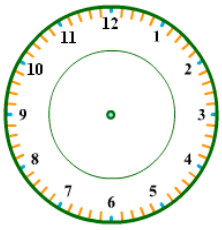

8 h moins 5

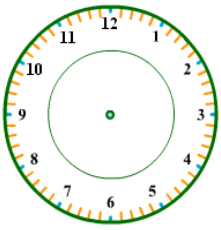

4 h moins 10

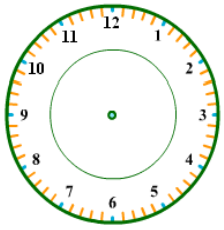

3 h moins 25

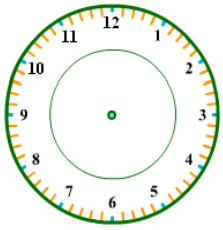

3 h 25

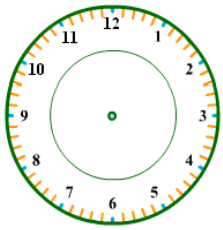

17 h 43

3

Trouve le nombre de minutes qu'il reste avant l'heure suivante :

16h42 → _____ 19h17 → _____ 14h51 → _____

12h08 → _____ 3h48 → _____ 18h18 → _____

7h54 → _____ 6h20 → _____ 15h11 → _____

20h14 → _____ 8h39 → _____ 2h49 → _____

4

PROBLEME

Mon émission préférée commence à 16h23 et se termine à 18h47.
Quelle est sa durée ?